KRAJ VYSOČINA

ZÁKLADNÍ ÚDAJE

Krajské město: …….

Okresní města: …….

…….

…….

…….

Nejvyšší bod: …….

Památka UNESCO …….

Elektrárna: …….

Najdi a vybarvi kraj Vysočina

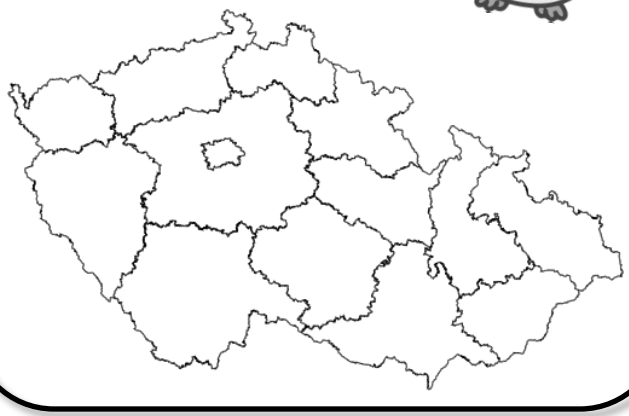

KRAJINA

Řeky: …….

…….

Vysočina se nachází na:

……. vrchovině

PAMÁTKA – vyber si jednu, která se ti líbí, a nalep nebo nakresli její obrázek.

Jak se jmenuje, a kde se nachází ?

……



CHKO

Jaké chráněné krajinné oblasti jsou na Vysočině?

1. CHKO ……..

2. CHKO ……..

ROZUMÍME SI?

Přelož tyto výrazy:

Hrča ……

Švíca ……

Amoleta ……

Žlica ……

SLAVNÝ RODÁK

Jméno: ……

Místo narození: ……

Co dělal/dělá: ……

Nakresli/nalep jeho obrázek.

VÝROBA

Najdi 1 firmu/továrnu na Vysočině.

……

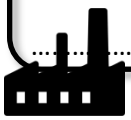

JAK MI TO DNES ŠLO?